## Séance 1 :

➢ Complète

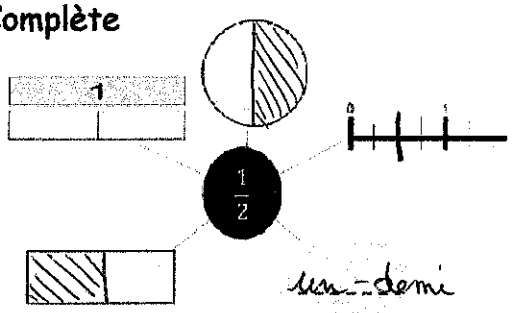


un-demi

➢ Révise les enveloppes des tables de multiplication

## Séance 2 :

➢ Problème (cahier de brouillon) : Pour faire des travaux, Hervé doit apporter 165 briques dans son garage.
Il les transporte dans sa brouette à raison de 8 briques par voyage.
Combien de voyages Hervé devra-t-il faire pour transporter les 165 briques ?

➢ Calcule en colonnes sur le cahier de brouillon :
375 : 7 => 375 = (7 × 53) + 4 avec 4 < 7

## Séance 3 :

➢ Dictée de nombres (cahier de brouillon) :
375 012 - 25 784 - 36 107 - 141 320

➢ Range ces nombres dans l'ordre croissant (du plus petit au plus grand)

25 784 < 36 107 < 141 320 < 375 012

.....

## Séance 4 :

➢ Calcule le double de

25 : 50 .....  50 : 100 .....

41 : 82 .....  100 : 200 .....

18 : 36 .....  500 : 1.000 .....

➢ Colorie les fractions suivantes



Un quart

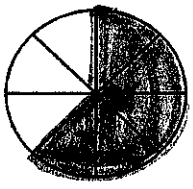

Cinq huitièmes

## Séance 5 :

➢ Ecris les nombres suivants sous forme de fractions

Deux dixièmes : $\frac{2}{10}$

Douze centièmes : $\frac{12}{100}$

Vingt-cinq dixièmes : $\frac{25}{10}$

➢ Trace une droite parallèle à la droite

(d)

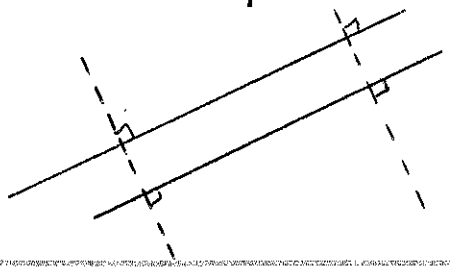

(d)

## Séance 7 :

➢ Problème

Voici le prix d'un manège à la foire :

| Nombre de tours | 1 | 2 | 5 | 10 |
|---|---|---|---|---|
| Prix en € | 3 | 6 | 15 | 30 |

Combien vas-tu payer pour faire 5 tours ? 10 tours ?

## Séance 6 :

➢ Compare les fractions suivantes avec < ou >

$\frac{5}{4}$ < $\frac{8}{4}$  $\frac{12}{3}$ > $\frac{3}{3}$

➢ Calcule en colonnes (cahier de brouillon)

641 : 5 => 641 = (5 × 128) + 1
avec 1 < 5